المملكة العربية السعودية
وزارة التعليم
ادارة التعليم .....
مدرسة .....

وزارة التعليم
Ministry of Education

المادة: الدراسات الاجتماعية
الصف: الثالث المتوسط
اختبار منتصف الفترة
الفصل الدراسي الثالث لعام ١٤٤٤هـ

نموذج اختبار منتصف الفترة لمادة الدراسات الاجتماعية للصف الثالث المتوسط

الدرجة: 20

اسم الطالب		الفصل	أ / ب

السؤال الاول: ضع علامة (√) أمام العبارة الصائبة وعلامة (×) أمام العبارة الخاطئة لما يأتي؟

٥ درجات

١	يحثنا ديننا الاسلامي على العمل والانجاز	
٢	التطور التقني لم يقلل من الاعتماد على الأيدي العاملة	
٣	يساعد علم المساحة في تمثيل مواقع الظواهر الطبيعية	
٤	عندما يكون الانسان منجزا فانه يشعر بالرضا	
٥	التضخم غير مضر بالاقتصاد	

السؤال الثاني:

درجتين

البطالة مشكلة اقتصادية واجتماعية، وقامت حكومة وطني بجهود واجراءات لتقليص نسبة البطالة ومن هذه الاجراءات (برنامج جودة الحياة) عبر بأسلوبك وبإيجاز عن هذا البرنامج واهدافه؟

.....

.....

السؤال الثالث: اختر الاجابة الصحيحة في الجدول ادناه؟

٤ درجات

١	نسبة البعد على الخريطة وما يقابله على الطبيعة:		٢	كل ما يأتي من اقسام GPS ماعدا :
أ	مقياس الرسم		أ	المستخدم
ب	الاحداثيات		ب	المساحة الارضية
ج	اطار الخريطة		ج	التحكم
د	عنوان الخريطة		د	الاقمار الصناعية
٣	الانشطة البشرية في مجال الانتاج والخدمات :		٤	من تتوافر لديهم مهارات ولا تتوافر لهم فرص عمل
أ	الانجاز الذاتي		أ	بطالة اختيارية
ب	الانتاج		ب	بطالة هيكلية
ج	التضخم		ج	بطالة مقنعة
د	الاقتصاد الوطني		د	بطالة وظيفية

يتبع

السؤال الرابع: أكل خرائط المفاهيم التالية ؟

٤ درجات

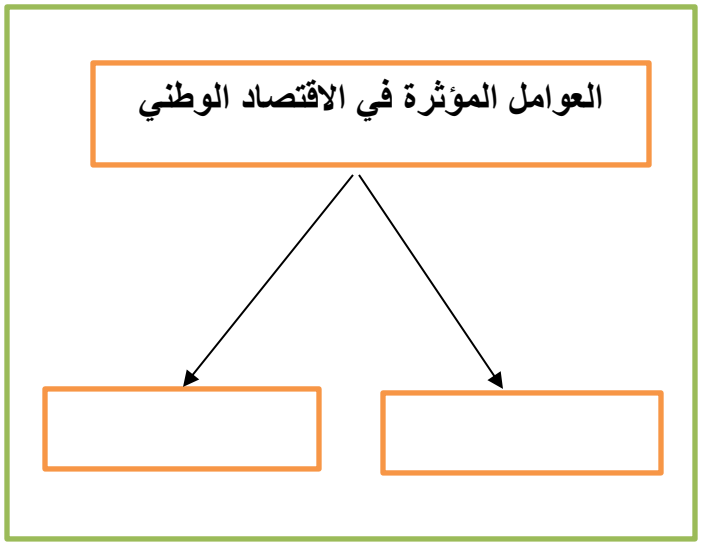

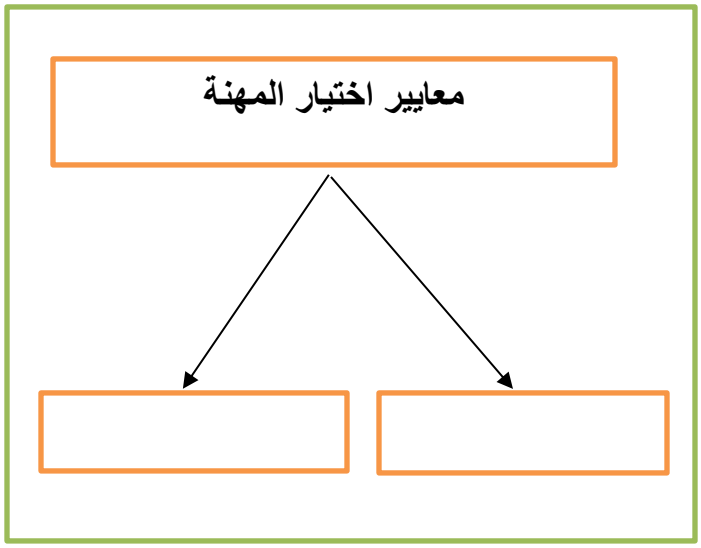

السؤال الخامس: قارن بين الخريطة والصور الجوية وفق الجدول أدناه؟

درجتين

الخريطة	وجه المقارنة	الصور الجوية
	المفتاح والرموز	
	الظواهر التي تفسرها	

السؤال السادس: من خلال درستك لأنواع الخرائط ومستعينا بالشكل المجاور حدد انواع الخرائط أدناه؟

٣درجات

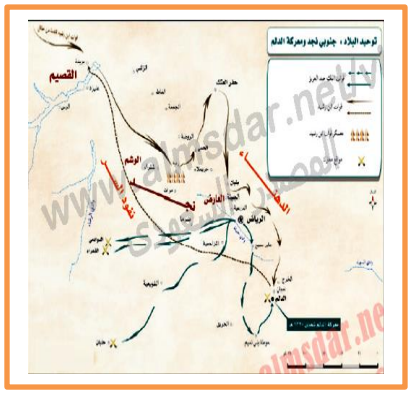

خريطة سياسية

خريطة مناخية

خريطة اقتصادية

خريطة تاريخية

....

انتهت الاسئلة / محمد القرني

المملكة العربية السعودية
وزارة التعليم
ادارة التعليم .....
مدرسة .....

وزارة التعليم
Ministry of Education

المادة: الدراسات الاجتماعية
الصف: الثالث المتوسط
اختبار منتصف الفترة
الفصل الدراسي الثالث لعام ١٤٤٤هـ

نموذج اختبار منتصف الفترة لمادة الدراسات الاجتماعية للصف الثالث المتوسط

الدرجة: 20

اسم الطالب	نموذج اجابة	الفصل	أ / ب

السؤال الاول: ضع علامة (√) أمام العبارة الصائبة وعلامة (×) أمام العبارة الخاطئة لما يأتي؟

٥ درجات

١	يحثنا ديننا الاسلامي على العمل والانجاز	√
٢	التطور التقني لم يقلل من الاعتماد على الأيدي العاملة	×
٣	يساعد علم المساحة في تمثيل مواقع الظواهر الطبيعية	√
٤	عندما يكون الانسان منجزا فانه يشعر بالرضا	√
٥	التضخم غير مضر بالاقتصاد	×

درجتين

السؤال الثاني:

البطالة مشكلة اقتصادية واجتماعية، وقامت حكومة وطني بجهود واجراءات لتقليص نسبة البطالة ومن هذه الاجراءات (برنامج جودة الحياة) عبر بأسلوبك وبإيجاز عن هذا البرنامج واهدافه؟

هو احد برامج رؤية المملكة ٢٠٣٠ ويخدم عدة جوانب منها الجانب الاقتصادي والاجتماعي ويسهم في خفض البطالة وتوفير فرص عمل كثيرة في عدة قطاعات مختلفة

السؤال الثالث: اختر الاجابة الصحيحة في الجدول ادناه؟

٤ درجات

١	نسبة البعد على الخريطة وما يقابله على الطبيعة:		٢	كل ما يأتي من اقسام GPS ماعدا :	
أ	مقياس الرسم		أ	المستخدم	
ب	الاحداثيات		ب	المساحة الارضية	
ج	اطار الخريطة		ج	التحكم	
د	عنوان الخريطة		د	الاقمار الصناعية	
٣	الانشطة البشرية في مجال الانتاج والخدمات :		٤	من تتوافر لديهم مهارات ولا تتوافر لهم فرص عمل	
أ	الانجاز الذاتي		أ	بطالة اختيارية	
ب	الانتاج		ب	بطالة هيكلية	
ج	التضخم		ج	بطالة مقنعة	
د	الاقتصاد الوطني		د	بطالة وظيفية	

يتبع

السؤال الرابع: أكل خرائط المفاهيم التالية ؟

٤ درجات

العوامل المؤثرة في الاقتصاد الوطني

- الاستقرار
- التخطيط السليم

معايير اختيار المهنة

- التخصص
- حاجات سوق العمل

السؤال الخامس: قارن بين الخريطة والصور الجوية وفق الجدول أدناه؟

درجتين

الخريطة	وجه المقارنة	الصور الجوية
يوجد بها مفتاح ورموز	المفتاح والرموز	لا يوجد بها مفتاح ورموز
الظواهر الثابتة	الظواهر التي تفسرها	الظواهر الثابتة و المتحركة

٣درجات

السؤال السادس: من خلال درستك لأنواع الخرائط ومستعينا بالشكل المجاور حدد انواع الخرائط أدناه؟

خريطة سياسية

خريطة مناخية

خريطة اقتصادية

خريطة تاريخية

خريطة تاريخية

خريطة مناخية

خريطة اقتصادية

انتهت الاسئلة / محمد القرني

نموذج اختبار منتصف الفترة

الفصل الدراسي الثالث ١٤٤٤

المادة: الدراسات الاجتماعية

وزارة التعليم
Ministry of Education

وزارة التعليم

ادارة .....

مكتب تعليم .....

اسم الطالب	إعداد / محمد القرني	الفصل		الدرجة / ٢٠	

السؤال الأول: مستعينا بالشكل المجاور ضع المصطلح امام ما يناسبه من العبارات ادناه؟ (٥ درجات)

- علم المساحة
- خريطة سياسية
- الخريطة
- خريطة تضاريسية

❖ ( ) تمثيل سطح الارض او جزء منه على لوحة مستوية

❖ ( ) تقاطع خطوط الطول ودوائر العرض .

❖ ( ) هي صور تلتقط بعدسات التصوير في وضع مائل .

❖ ( ) العلم الذي يبحث في الطرائق المختلفة لمثيل سطح الارض .

❖ ( ) هي الخرائط التي توضح حدود الدول .

السؤال الثاني : ضع الرقم امام المجموعة الاولى أمام ما يناسبه من المجموعة الثانية ؟ (٣ درجات)

الرقم	المجموعة الأولى	الرقم	المجموعة الثانية
١	مقياس الرسم		يحيط بالخريطة من الخارج
٢	اطار الخريطة		تقاطع خطوط الطول مع دوائر العرض
٣	عنوان الخريطة		النسبة بين البعد على الخريطة ومايقابله على الطبيعة
			اسم وموضوع الخريطة والمكان الذي تمثله

السؤال الثالث : أكمل خرائط المفاهيم التالية ؟ (٤ درجات)

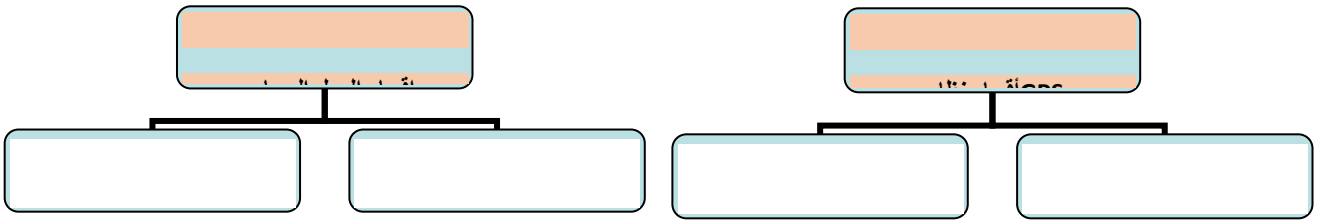

السؤال الرابع : (أ) قارن بين الخريطة والصور الجوية وفق الجدول؟ (٥ درجات)

الخريطة	وجه المقارنة	الصور الجوية
	المفتاح	
	الظاهرة التي تفسرها	

(ب) وضح باختصار اهمية نظام ال GPS ؟

.....

السؤال الخامس: عزيزي الطالب من خلال دراستك لأنواع الخرائط صنف ما يأتي مستعينا بالشكل المجاور؟ (٣ درجات)

- خريطة سكانية
- خريطة اقتصادية
- خريطة تاريخية

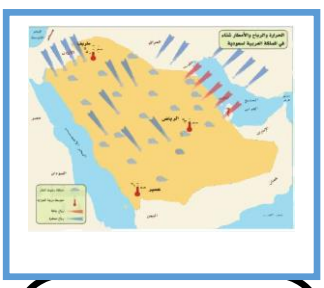

نموذج اختبار منتصف الفترة

الفصل الدراسي الثالث ١٤٤٤

المادة: الدراسات الاجتماعية

وزارة التعليم
Ministry of Education

وزارة التعليم

ادارة .....

مكتب تعليم .....

اسم الطالب	إعداد / محمد القرني (اجابة)	الفصل		الدرجة / ٢٠	

السؤال الأول: مستعينا بالشكل المجاور ضع المصطلح امام ما يناسبه من العبارات ادناه؟ (٥ درجات)

علم المساحة

خريطة سياسية

الخريطة

خريطة تضاريسية

- ❖ (الخريطة) تمثيل سطح الارض او جزء منه على لوحة مستوية
- ❖ (الاحداثيات) تقاطع خطوط الطول ودوائر العرض .
- ❖ (الصور المائلة) هي صور تلتقط بعدسات التصوير في وضع مائل .
- ❖ (علم المساحة) العلم الذي يبحث في الطرائق المختلفة لمثيل سطح الارض .
- ❖ (خريطة سياسية) هي الخرائط التي توضح حدود الدول .

السؤال الثاني : ضع الرقم امام المجموعة الاولى أمام ما يناسبه من المجموعة الثانية ؟ (٣ درجات)

الرقم	المجموعة الأولى	الرقم	المجموعة الثانية
١	مقياس الرسم	٢	يحيط بالخريطة من الخارج
٢	اطار الخريطة		تقاطع خطوط الطول مع دوائر العرض
٣	عنوان الخريطة	١	النسبة بين البعد على الخريطة ومايقابله على الطبيعة
		٣	اسم وموضوع الخريطة والمكان الذي تمثله

السؤال الثالث : أكمل خرائط المفاهيم التالية ؟ (٤ درجات)

السؤال الرابع : (أ) قارن بين الخريطة والصور الجوية وفق الجدول؟ (٥ درجات)

الخريطة	وجه المقارنة	الصور الجوية
تحتاج ويوجد فيها	المفتاح	لا تحتاج اليه
الظواهر الثابتة فقط	الظاهرة التي تفسرها	الظواهر الثابتة والمتحركة

(ب) وضح باختصار اهمية نظام ال GPS ؟

يحدد المواقع بدقة عالية ويفيدنا في تحديد اتجاه القبلة وارشاد سائقي السيارات الى الاماكن التي يقصدونها

السؤال الخامس: عزيزي الطالب من خلال دراستك لأنواع الخرائط صنف ما يأتي مستعينا بالشكل المجاور؟ (٣ درجات)

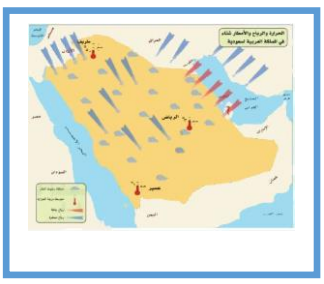

خريطة سكانية

خريطة اقتصادية

خريطة تاريخية

وزارة التعليم

ادارة .....

مكتب تعليم .....

وزارة التعليم
Ministry of Education

نموذج اختبار منتصف الفترة

الفصل الدراسي الثالث ١٤٤٤

المادة: الدراسات الاجتماعية

خريطة مناخية

خريطة اقتصادية

خريطة سكانية